Το ψάρι

Χρωμάτισε.

όσα έχουν άθροισμα μικρότερο από 8

όσα έχουν άθροισμα 8

όσα έχουν άθροισμα μεγαλύτερο από 8



Πόσα είναι όλα;

9 + 0 = 9

__ + __ = __

__ + __ = __

__ + __ = __

Γράψε τους αριθμούς που λείπουν.

+	1	2	3	4
1	2			5
2		4	5	

Συμπλήρωσε τις καρτέλες στα πόδια των χταποδιών.



Κάνε τις πράξεις και ένωσε με μια γραμμή το κάθε παιδί με το παιχνίδι του.



Συμπλήρωσε τους αριθμούς.



__ + __ = __

__ + __ = __

Σχεδίασε τα πηδήματα που θα κάνει ο βάτραχος.

6 + 4 = __

7 + 3 = __

4 + 2 = 6

Συμπλήρωσε.

+ =

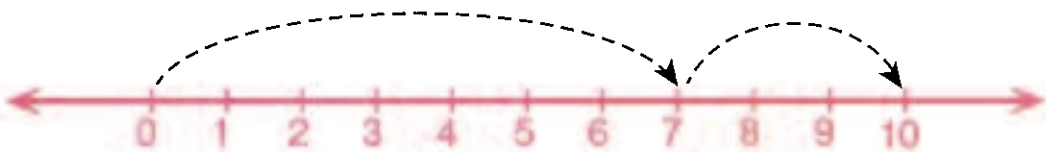

+ =

5 + 3 = 8

Πόσα τριαντάφυλλα έκοψε η Μαρία;

Η Μαρία έκοψε ____ τριαντάφυλλα.

Τάσος

Έλενα

Πόσα χρήματα έχει η Έλενα;

Η Έλενα έχει ____ σεντ.

Μιχάλης

Άννα

Ο Μιχάλης έχει ____ χάντρες περισσότερες από την Άννα.

Σχεδίασε και συμπλήρωσε.

2 + 4 = 6

5 + ☐ = 8

7 + ☐ = 9

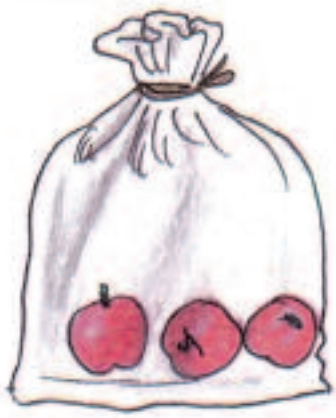

3 + ☐ = 7

6 + ☐ = 10

5 + ☐ = 10

Γαλάζιοι και κόκκινοι βόλοι

		γαλάζιοι		κόκκινοι
	9 =		+	
	9 =		+	
	9 =		+	
	9 =		+	
	9 =		+	
	9 =		+	
	9 =		+	
	9 =		+	
	9 =		+	
	9 =		+	

Χρωμάτισε όσα έχουν άθροισμα μεγαλύτερο από 5.



Ο Θωμάς έχει 10 μπάλες. Το χρώμα τους είναι κίτρινο ή πράσινο.
Πόσες μπορεί να είναι οι κίτρινες και πόσες οι πράσινες;

Χρωμάτισε τις μπάλες και γράψε τους αριθμούς.

○ ○ ○ ○ ○ ○ ○ ○ ○ ○	0 + ☐
○ ○ ○ ○ ○ ○ ○ ○ ○ ○	1 + ☐
○ ○ ○ ○ ○ ○ ○ ○ ○ ○	2 + ☐
○ ○ ○ ○ ○ ○ ○ ○ ○ ○	3 + ☐
○ ○ ○ ○ ○ ○ ○ ○ ○ ○	4 + ☐
○ ○ ○ ○ ○ ○ ○ ○ ○ ○	5 + ☐
○ ○ ○ ○ ○ ○ ○ ○ ○ ○	6 + ☐
○ ○ ○ ○ ○ ○ ○ ○ ○ ○	7 + ☐
○ ○ ○ ○ ○ ○ ○ ○ ○ ○	8 + ☐
○ ○ ○ ○ ○ ○ ○ ○ ○ ○	9 + ☐
○ ○ ○ ○ ○ ○ ○ ○ ○ ○	10 + ☐

Μάντεψε

- Πάρε 10 φασόλια.
- Κλείσε μερικά στο ένα χέρι και τα υπόλοιπα στο άλλο.
- Ζήτησε από το διπλανό σου να μαντέψει πόσα φασόλια είναι στο κάθε χέρι.



Τι προσπαθεί να κάνει ο Τάκης; Για να το μάθεις, βρες τα αθροίσματα και ένωσε τις κουκίδες με τη σειρά, αρχίζοντας από το πιο μικρό άθροισμα.

Σχεδιάζω την οικογένειά μου

Χρωμάτισε ένα κουτάκι για κάθε άτομο της οικογένειάς σου.

Πόσα κάνουν;

5 + 3 =

6 + 4 =

7 + 2 =

4 + 5 =

4 + 4 =

3 + 7 =

Τα μπαλόνια

Χρωμάτισε ένα κουτάκι για κάθε μπαλόνι.



Συμπλήρωσε.

Τα είναι

Τα είναι

Τα είναι

Τα και τα μαζί είναι

Απάντησε τις ερωτήσεις.

Πόσα περισσότερα είναι τα από τα ;

Πόσα περισσότερα είναι τα από τα ;

Πρόβλημα

Τα μπαλόνια πιάστηκαν στα κλαδιά του δέντρου.
Έσπασαν 4 κόκκινα και 2 μπλε. Πόσα έμειναν;



Η Μαρία αγόρασε μια κούκλα και μια μπάλα. Πόσα πλήρωσε;

€

Η Αθηνά έχει €5. Θέλει να αγοράσει μια κούκλα. Πόσα χρήματα χρειάζεται ακόμα;

€

Ο Τάσος έχει €5. Τι μπορεί να αγοράσει;

Τι θα ήθελες εσύ να αγοράσεις αν κρατούσες €10;

ενότητα 4

Πάρε 3 μολύβια.
Δώσε 2 στο διπλανό σου.
Πόσα σου έμειναν;

Σχεδίασε αυτό που έκανες.

Βάλε 5 φασόλια στο θρανίο σου.
Από αυτά κρύψε 2 στην τσέπη σου.
Πόσα φασόλια έμειναν στο θρανίο;

Σχεδίασε αυτό που έκανες.

Παιχνίδι για δύο

- Βάλε 5 φασόλια στο θρανίο σου.
- Πάρε μερικά από αυτά και κρύψε τα.
- Ζήτα από το διπλανό σου να βρεί πόσα φασόλια έκρυψες.

Το βρήκε;

Πόσα περισσότερα είναι τα αγόρια από τα κορίτσια;

Πόσοι λιγότεροι είναι οι κύκνοι από τις πάπιες;

Χρωμάτισε τα λουλούδια στο βάζο.

- τρία είναι κόκκινα
- τα υπόλοιπα είναι κίτρινα

Πόσα είναι τα κίτρινα;

Σχεδίασε 5 μπάλες.
Χρωμάτισε 2 κόκκινες και τις άλλες γαλάζιες.

Πόσες είναι οι γαλάζιες μπάλες;

Σχεδίασε 4 ομπρέλες.
Χρωμάτισε 2 κίτρινες και τις άλλες πράσινες.

Πόσες είναι οι πράσινες ομπρέλες;

Σχεδίασε 5 χάντρες.
Χρωμάτισε 3 μπλε και τις άλλες κίτρινες.

Πόσες είναι οι κίτρινες χάντρες;

Πες μια ιστορία για την εικόνα.

Είχα.

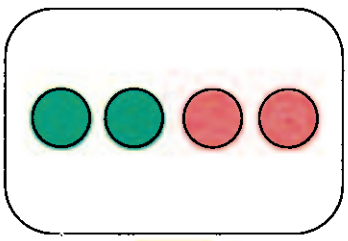

'Εχασα.

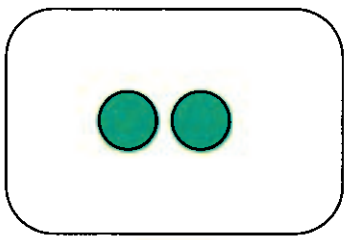

Μου έμειναν.

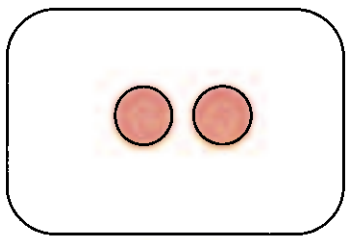

Είχα.

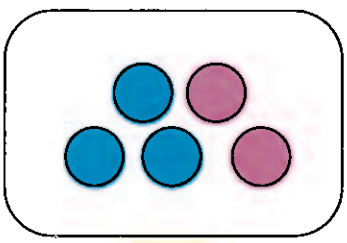

'Εχασα.

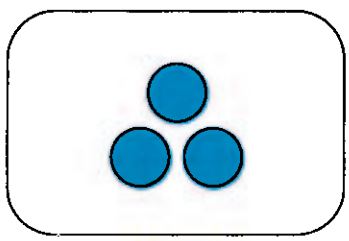

Μου έμειναν.

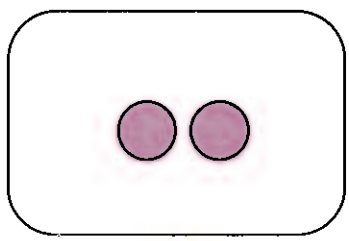

Πόσοι βόλοι, νομίζεις, μπορούν να μπουν σε ένα ποτήρι;

Στο δέντρο ήταν 4 πουλάκια.
Έφυγαν 2. Πόσα έμειναν;

4 – 2 = 2

Πόσα ήταν;

Πόσα έφυγαν;

Πόσα έμειναν;

– =

Πόσα ήταν;

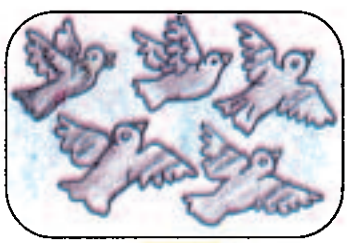

Πόσα έφυγαν;

Πόσα έμειναν;

– =

5 – 2 = 3

Συμπλήρωσε.

☐ – ☐ = ☐

☐ – ☐ = ☐

☐ – ☐ = ☐

☐ – ☐ = ☐



5 – 3 = 2

Συμπλήρωσε.

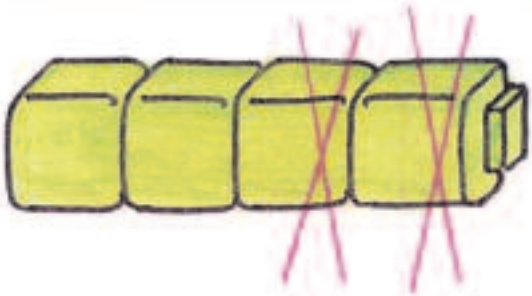

_ – _ = _

_ – _ = _

_ – _ = _

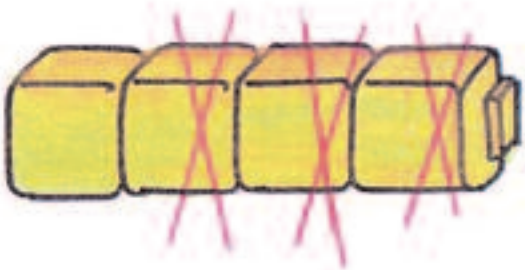

_ – _ = _

4 + 1 = 5 5 − 1 = 4

1 + 4 = 5 5 − 4 = 1

Συμπλήρωσε.

_ + _ = _ _ − _ = _

_ + _ = _ _ − _ = _

_ + _ = _ _ − _ = _

_ + _ = _ _ − _ = _

Πόσα πουλιά θα μείνουν στο δέντρο,
αν γαυγίσει ο σκύλος;

Είχα. Έχασα. Μου έμειναν.

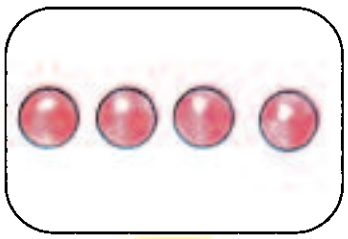



Είχα. Έφαγα. Μου έμειναν.





4 – 0 = 4

Συμπλήρωσε.

5 – 5 = ☐

4 – 4 = ☐

5 – 0 = ☐

4 – 0 = ☐

3 – 3 = ☐

2 – 2 = ☐

7 – 7 = ☐

2 – 0 = ☐

1 – 0 = ☐

8 – 8 = ☐

6 – 6 = ☐

9 – 0 = ☐

Πάρε 8 μολύβια. Δώσε 3 στο διπλανό σου. Πόσα σου έμειναν;

Σχεδίασε αυτό που έκανες.

Βάλε 7 φασόλια στο θρανίο σου. Από αυτά κρύψε 3 στην τσέπη σου. Πόσα φασόλια έμειναν στο θρανίο;

Σχεδίασε αυτό που έκανες.

Βάλε 9 φασόλια στο θρανίο σου. Από αυτά κρύψε 5 στην τσέπη σου. Πόσα φασόλια έμειναν στο θρανίο;

Σχεδίασε αυτό που έκανες.

Σχεδίασε 7 μήλα. Χρωμάτισε 3 κόκκινα και τα άλλα πράσινα.

Πόσα είναι τα πράσινα μήλα;

Σχεδίασε 10 μπανάνες. Χρωμάτισε 5 κίτρινες και τις άλλες πράσινες.

Πόσες είναι οι πράσινες μπανάνες;

Ένας βοσκός έχει 8 κατσίκες, καφέ και μαύρες. Χρωμάτισέ τες.



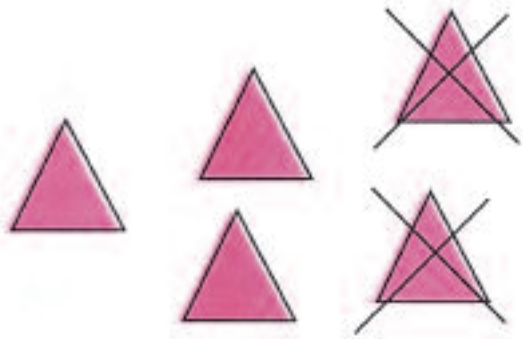

Πόσα έμειναν;

5 – 2 = 3

Διάγραψε αυτά που αφαιρούνται και συμπλήρωσε τη μαθηματική πρόταση.



6 – 2 =

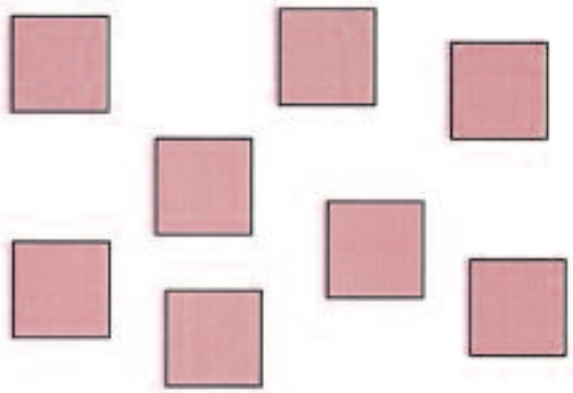

8 – 3 =



10 – 2 =



10 – 3 =

Συνέχισε με τον ίδιο τρόπο.



9 – 5 =



7 – 3 =



7 – 4 =



5 – 1 =



6 – 4 =



9 – 7 =

7 – 2 = 5

Διάγραψε τις χάντρες που θα κοπούν και συμπλήρωσε.

6 – 4 =

8 – 2 =

9 – 3 =

Πες μια ιστορία για την εικόνα.

Σχεδίασε μια εικόνα για τη μαθηματική πρόταση

$$8 - 5 = 3.$$

Βρες τη διαφορά. Αν είναι μικρότερη από 4, χρωμάτισε με γαλάζιο.



Βρες τη διαφορά. Αν είναι μεγαλύτερη από 3, χρωμάτισε με κόκκινο.



5 + 1 = 6 6 − 1 = 5

1 + 5 = 6 6 − 5 = 1

Συμπλήρωσε.

+ = − =

+ = − =

+ = − =

+ = − =

Τα δύο πηδήματα του λαγού

Ο λαγός με ένα μεγάλο πήδημα πήγε στο 5.
Έκανε ύστερα ένα μικρό πήδημα πίσω.
Πού βρίσκεται;

5 – 1 = 4

Συμπλήρωσε.

7 – ☐ = ☐

8 – ☐ = ☐

10 – ☐ = ☐